ANEXO I

NIVELES DE CONCRECIÓN CURRICULAR

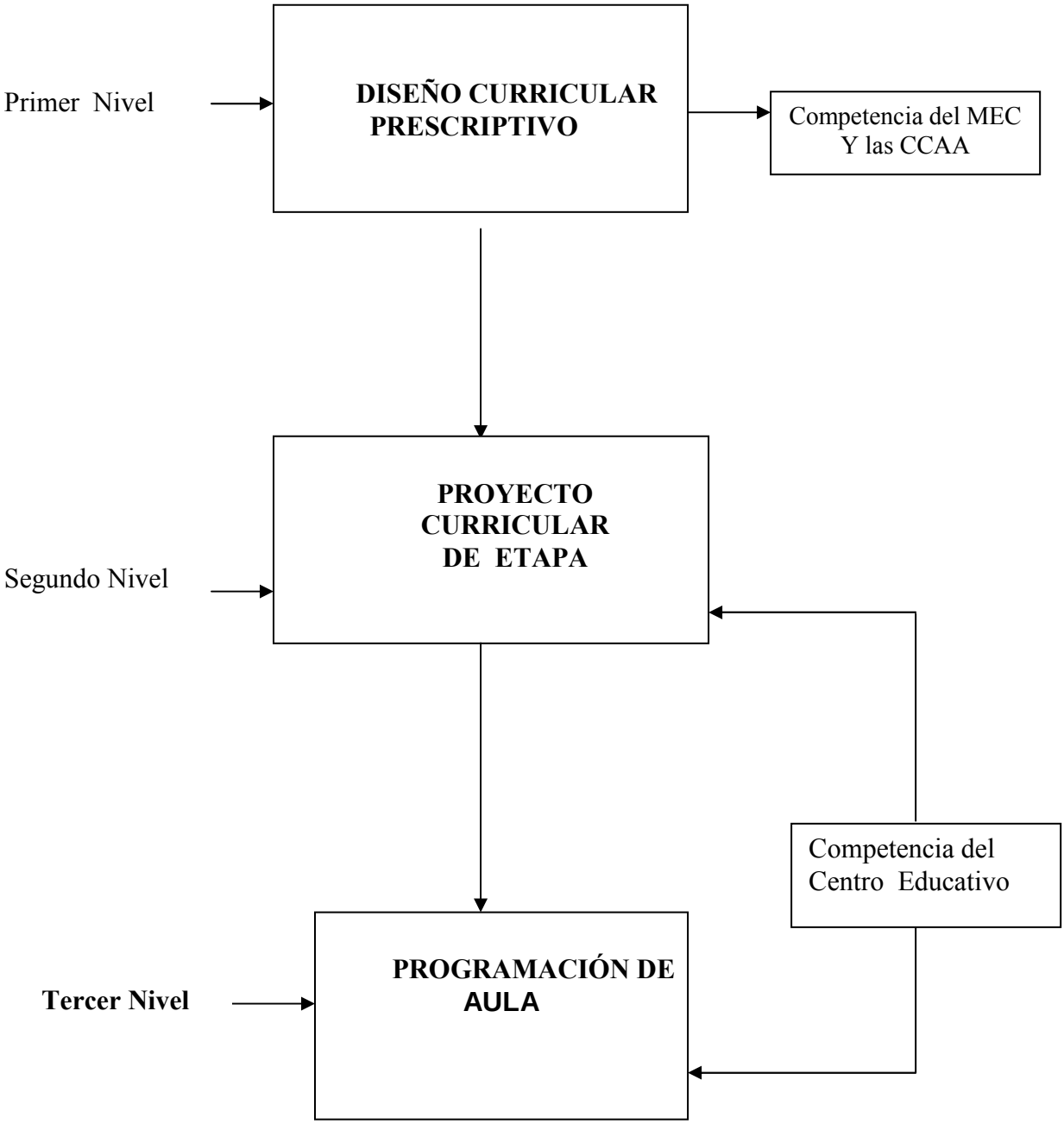

ANEXO II

ACCESO A CFGS EN ADMINISTRACIÓN Y FINANZAS

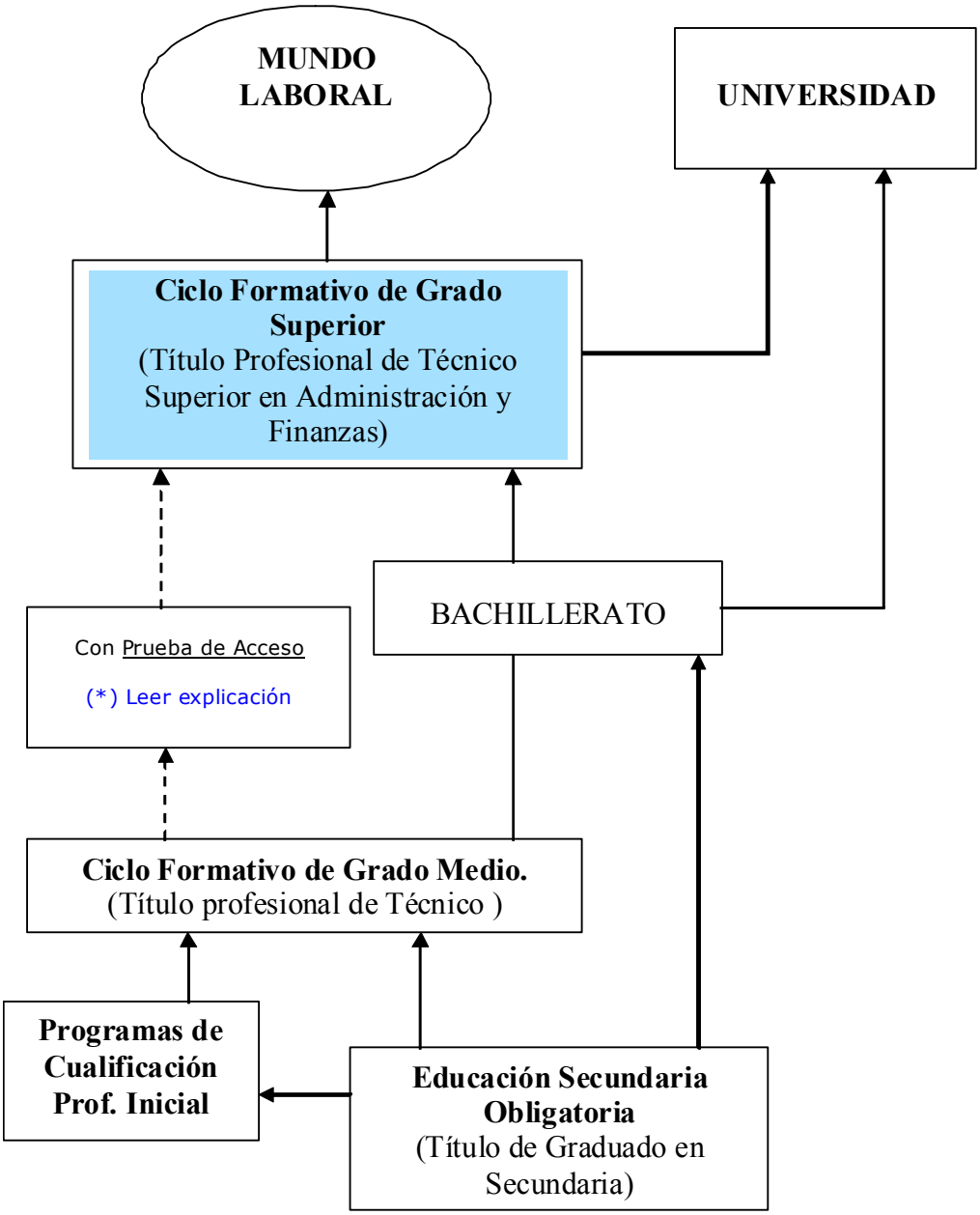

(*) Nota explicativa: Para acceder del CFGM al CFGS es necesaria una prueba de acceso. Si el CFGM desde el que se accede es de la misma familia profesional que el CFGS, el alumno se examinará sólo de la parte común. Si el CFGM no es de la misma familia profesional, el alumno se examinará de la parte común y específica (cuyo contenido dependerá del ciclo en cuestión).

ANEXO III

EXAMEN FOL CFGS en Administración y Finanzas

(Bloque de Legislación)

Nombre.....

1. ¿ Qué características tiene que reunir el trabajo para estar regulado por el Derecho Laboral?. Explícalas.
2. Diferencia entre el Contrato para la Formación y el Contrato de trabajo en Prácticas.
3. ¿A qué tribunales hemos de acudir para reclamar por temas laborales?. ¿Cuál es su ámbito territorial?.
4. ¿Qué opciones tiene un trabajador que es trasladado de centro de trabajo?.
5. ¿Cuál es el descanso semanal mínimo para los trabajadores menores de 18 años?.
6. Indica quienes pueden ser electores y candidatos en una votación para delegados de personal.
7. Di si son verdaderas o falsas las siguientes afirmaciones:
   a) El periodo de prueba puede acordarse de palabra....
   b) La edad mínima para trabajar son los 16 años....
   c) El trabajador no puede extinguir su contrato por propia voluntad...
8. Antonio Gómez, trabajador de la empresa "Asesores Ruiz SL", durante el mes de abril 2008, genera las siguientes retribuciones:
   - -Salario base .....781,32 euros
   - -Antigüedad .....60,10 euros
   - -Plus de Jefatura....150,25 euros
   - -Plus de transporte ...72,12 euros
   - -Horas extras.....60,10 euros

El trabajador tiene derecho a dos pagas extras de salario base más antigüedad.

SE PIDE: - Diferenciar las percepciones salariales de las extrasalariales.

-Confeccionar la nómina del mes de abril.

9. Enumera los requisitos que hay que cumplir para tener derecho a la prestación por Desempleo.

EXAMEN DE FOL CFGS en Administración y Finanzas

(Bloque de Salud Laboral)

Nombre:.....

1. Define la salud según la OMS.

2.Clasifica los siguientes factores de riesgo , según sean físicos, químicos, biológicos o psicosociales : ruido, cloro , presión, bacterias, ritmo de trabajo , vibraciones, iluminación.

3. Enumera los riesgos más frecuentes en puestos de trabajo con Pantallas de Visualización de Datos.

4. ¿Qué órganos de prevención conoces?

5. ¿Cómo calificarías el accidente que sufre un trabajador cuando vuelve a su casa después de trabajar? ¿Qué requisitos debe cumplir para ser admitido como tal según la Jurisprudencia?

6. Características de las señales de obligación. Dibuja los tipos de señales en forma de panel.

7. ¿En qué consiste el Triage?

8. ¿Qué productos deberá contener el botiquín de la empresa?

9. ¿Qué es una fractura? Protocolo de actuación.

10. Cuando un único socorrista tiene que aplicar la reanimación cardiaca, ¿qué debe hacer?

EXAMEN DE FOL CFGS en Administración y Finanzas

(Bloque de Orientación e Inserción Sociolaboral)

Nombre:.....

1.Define el proceso de Búsqueda de Empleo.

2.Enumera las fuentes de información en el proceso de búsqueda de empleo.

3.Al terminar el Ciclo Formativo, ¿qué titulación obtendrás?.Salidas profesionales.

4.Luis Álvarez envión su Currículum Vitae a la Empresa "Asesores Ruiz SL" y ha sido citado para formar parte del proceso de selección.

a) ¿Qué fases deberá superar?.
b) ¿Qué consejos le darías para superar las diferentes fases?

5.A partir de tus datos personales, elabora tu propio Curriculum Vitae , suponiendo que va a ser enviado a una empresa para la cobertura de un puesto de trabajo relacionado con el área financiera.

6.¿Qué es un Curriculum Vitae cronológico?.

7.Elabora una Carta de Presentación como Autocandidatura.

8.¿Cuándo se debe enviar un CV manuscrito?.

9.¿A qué organismo podrás dirigirte si deseas buscar trabajo en un país de la Unión Europea?, ¿qué modelo de Curriculum utilizarás?.

10.Enumera 5 consejos básicos a tener en cuenta en la Entrevista de Selección.

EXAMEN DE FOL CFGS en Administración y Finanzas

(Economía y Org. de la Empresa) Nombre:.....

1.Clasifica las siguientes empresas según el sector económico al que pertenecen:
Aceite de oliva virgen Baeza – Hipermercados Sur – Renault – Caja Granada

2.¿Qué es el Umbral de rentabilidad?. ¿Cómo se calcula?.Represéntalo gráficamente.

3.El plan de tesorería. Concepto y diferencias con el plan financiero.

4.Define qué es el patrimonio de una empresa.

5.¿Qué masas patrimoniales conoces y qué función cumple cada una?.

6.El stock de seguridad.

7.Las Cuentas Anuales.

8. ¿Cómo se pueden calcular los costes totales en que se incurren para elaborar un producto o prestar un servicio?.Explícalo.

9.Elabora el Balance de situación de la empresa JJ que a fecha de 31-12-07 cuenta con los siguientes elementos patrimoniales:

-Elementos de transporte .....6000 euros
-Amortización acumulada de los elementos de transporte.....1000 "
-Préstamo bancario a devolver en 2 años.....4000 "
-Acreedores por prestación de servicios.....3000 "
-Local comercial.....10.000 "
-Mobiliario.....2500 "
-Facturas a cobrar .....2000 "
-Hacienda Pública acreedora.....3000 "
-Beneficios no Distribuidos.....2500 "
-Mercaderías.....5000 "
-Dinero en caja.....3250 "
-Subvención a fondo perdido de la U.E.....2000 "
-Proveedores de materias primas.....1500 "
-Dinero en cuenta corriente.....3000 "
-Maquinaria y Herramientas.....1300 "
-Facturas a pagar a c/pl.....850 "
-Clientes.....1250 "
-Capital Social.....??????? "

ANEXO IV

Evaluación del Proceso de Enseñanza-Aprendizaje

Cuestionario de evaluación del profesor y del proceso de enseñanza-aprendizaje para los alumnos

El presente cuestionario se entregará al alumno al final de cada evaluación y su contenido es el siguiente:

El objetivo del siguiente cuestionario es que el profesor conozca la opinión de los estudiantes acerca de su trabajo. Responde sinceramente y de acuerdo con la realidad.

	Nunca	Algunas Veces	La mayoría de las veces	Siempre
El profesor es organizado				
Es puntual				
Prepara bien las clases				
Mantiene el interés de los alumnos				
Aplica la disciplina con justicia				
Hay un ambiente de trabajo positivo en clase				
Responde cuando hacemos alguna pregunta				
Nos presta atención a todos				
La cantidad de trabajo para casa es razonable				
Explica los deberes claramente				
Explica los contenidos claramente				
Usa buenos ejemplos en sus explicaciones				
Responde a preguntas a cerca de lo que no entendemos				
Evalúa nuestros conocimientos				
Usa diferentes materiales en sus explicaciones				
Explica la manera de evaluar				
Evalúa con justicia				
Me gustan las clases				
Nos respeta				
Los alumnos respetamos al profesor				
Al profesor le importa nuestra educación				

El profesor es una persona tranquila				
Al profesor le gusta dar clase				
El profesor aprecia el trabajo bien hecho				
Al profesor le importa nuestra educación				

Tu evaluación general sobre el trabajo del profesor es:

MALA	REGULAR	BUENA	MUY BUENA

Escribe al menos tres aspectos del módulo que mejorarías:

GRACIAS POR TU COLABORACIÓN

ANEXO V

Anuncios y Noticias de Prensa

ACCIDENTE MORTAL EN EL NUEVO ESTADIO DEL VALENCIA

Vista general de las obras del nuevo estadio de fútbol del Valencia

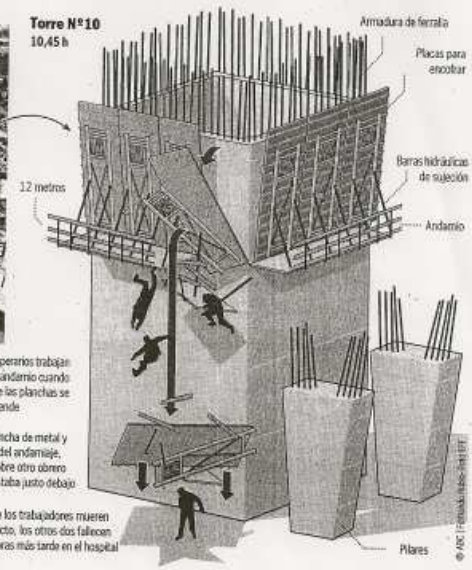

Una placa de 3.000 kilos mata a cuatro operarios en las obras del nuevo Mestalla

Una placa de encofrado de enormes dimensiones cayó sobre los trabajadores — El informe inicial de la Fiscalía indica que el accidente en Valencia **no fue un «fallo humano», sino técnico**

RAÚL COSÍN

VALENCIA. Cuatro de los 450 operarios que trabajan en la construcción de las obras del nuevo estadio del Valencia Club de Fútbol perdieron ayer la vida al derrumbarse una de las estructuras en las que se encontraba un andamio y una placa de encofrado de más de 3.000 kilos de la torre número 10 (de doce metros de altura) de la infraestructura.

El suceso tuvo lugar a las 10.45 horas de la mañana. Dos de los obreros murieron en el acto, mientras que los otros dos trabajadores fallecieron tres horas más tarde en los hospitales de La Fe y el Clínico de la capital valenciana.

Luis Medardo Sinchiguano, de 38 años, de origen ecuatoriano, y Nelson Rocha García, de 44 años, de nacionalidad boliviana, fueron los dos operarios que perdieron la vida en el mismo instante del accidente. Cada uno de ellos tenía dos hijos y se dedicaban a las tareas de encofrado.

Por su parte, los servicios sanitarios trasladaron con pronóstico muy grave a Enrique Pradas Franco, de 26 años, al hospital de La Fe. El joven soldador, quien perdió parte de la masa encefálica, falleció hacia las dos de la tarde. La cuarta víctima mortal es José Vilanova Rosa, de 22 años, que fue trasladado al centro hospitalario con politraumatismos severos.

Según el informe, en fase embrionaria, del fiscal delegado de Siniestralidad, Jaime Gil Rubio, todos los indicios señalan que el accidente se debió a «un fallo no humano, sino técnico, por la posible fractura de un bulón —tornillo de grandes dimensiones—, que ha hecho que se derrumbara una estructura en la que se encontraba un andamio y una placa de encofrado de más de tres mil kilos». En el mismo informe, el delegado de la Jefatura de Siniestralidad advertía que no se registró en la recogida de datos «fallo del control de las medidas de seguridad». En el documento se indicaba que no suponía una «calificación definitiva ni provisional de los hechos».

ABC tuvo acceso al testimonio de alguno de los compañeros de estos cuatro trabajadores, quienes aseguraron que «las medidas de seguridad siempre se han cumplido en los meses que llevamos de obra».

Investigación de la UTE

El nuevo estadio de Mestalla, cuyo coste asciende a 275 millones de euros, comenzó a construirse en la Avenida de las Cortes Valencianas a principios de septiembre de 2007 por la Unión Temporal de Empresas (UTE) de Bertolín y FCC, a las que el Valencia seleccionó tras concurso para la edificación de esta obra.

La UTE emitió a las 19.15 horas un comunicado en el que lamentaba «profundamente el trágico accidente» y transmitía sus condolencias a las familias de los cuatro fallecidos.

Asimismo, en la nota, FCC y Bertolín aseguraban haber puesto en marcha «todos los mecanismos necesarios» a disposición de las autoridades para facilitar el esclarecimiento de los hechos. «Independientemente de las actuaciones legales ya emprendidas, la UTE pondrá en marcha su propia investigación de cuyos resultados serán informados puntualmente las autoridades, las familias afectadas y el propio Valencia CF, promotor del proyecto», seguía el comunicado.

Por su parte, el director general del Instituto Valenciano de la Seguridad y la Salud en el Trabajo (Invassat), Miguel Ángel Tarín, desplazado al lugar del accidente, sostuvo que las obras reúnen las «condiciones de seguridad adecuadas», e indicó que estudiará las condiciones de la obra y de los trabajadores «con todo detalle» por si es necesario aplicar «medidas correctoras».

Por contra, los representantes de las secciones de Seguridad y Salud en el Trabajo de UGT y CC.OO. manifestaron que el accidente se produjo por un «fallo» en el protocolo de izado y sujeción del encofrado», porque los materiales empleados son de «última generación» y «no pueden fallar», con lo que descartaban que el siniestro se produjese por un fallo de tipo técnico.

El arquitecto-asesor del Valencia, Alejandro Escribano, dijo ayer que el club espera «una explicación convincente y detallada» por parte de las empresas constructoras.

SINIESTRALIDAD LABORAL

227 muertos hasta el mes de marzo

Según el último informe de siniestralidad laboral del Ministerio de Trabajo a 31 de marzo de 2008, un total de 227 personas perdieron la vida en accidentes laborales, la misma cifra que en el primer trimestre de 2007. Además de las cuatro personas que fallecieron ayer en Valencia, en el pueblo leonés de Santa Lucía de Gordón un minero de 42 años falleció al quedar atrapado por el lodo tras reventar una balsa de agua en el Pozo de «Eloy Rojo», mientras que en la localidad lucense de Taboada falleció un trabajador portugués que viajaba con otros dos compañeros en una furgoneta que se salió de la carretera y chocó contra un árbol otra. Uno de sus compañeros, de 44 años, resultó herido grave, y el otro, de 40 años, tuvo lesiones leves. Se trata del cuarto trabajador luso que muere en Galicia en sólo tres días, ya que otros tres fallecieron el viernes en otro accidente.